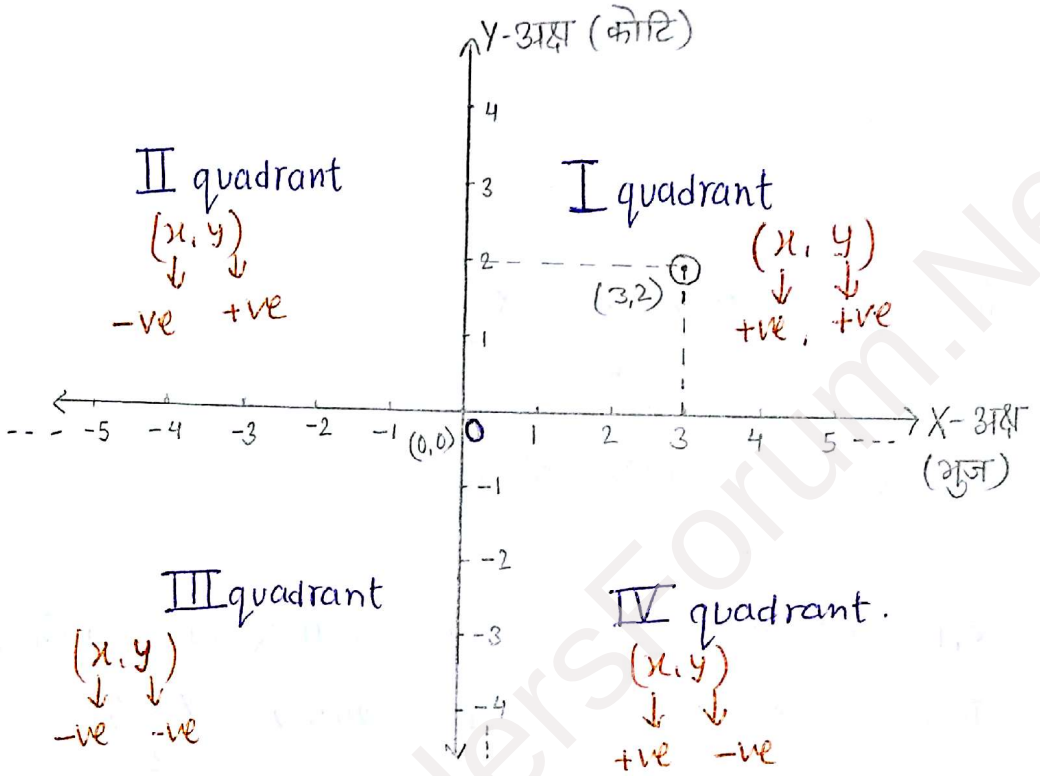
निर्देशांक ज्यामिति
CO-ORDINATE GEOMETRY



X-y तल में स्थित दो बिन्दुओं $P(x_1, y_1)$ तथा $Q(x_2, y_2)$ के बीच की दूरी $PQ = \sqrt{(x_1-x_2)^2+(y_1-y_2)^2}$

$d = \sqrt{(x\text{-निर्देशांको का अंतर})^2+(y\text{- निर्देशांकों का अंतर})^2}$

बिन्दु $P(x, y)$ की मूल बिन्दु $O(0,0)$ से दूरी →

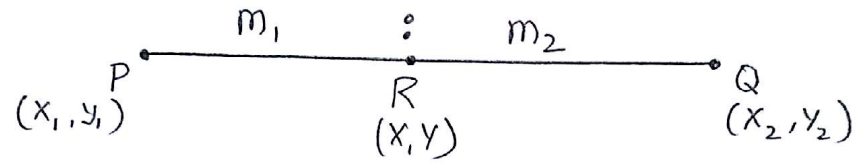
$$\boxed{d = \sqrt{x^2+y^2}}$$

Ex: $P(3,2)$ की मूल बिन्दु से दूरी $= \sqrt{3^2+2^2} = \sqrt{13}$ ans..

www.eReadersForum.Net

Scanned by CamScanner


यदि बिन्दु $P(x_1, y_1)$ व $Q(x_2, y_2)$ को मिलाने वाली रेखा को कोई बिन्दु $R(x, y)$, m_1 तथा m_2 अनुपात में अन्तः विभाजित कर रहा है तो बिन्दु $R(x, y)$ के निर्देशांक :-



निर्देशांक $x = \dfrac{m_1 x_2 + m_2 x_1}{m_1 + m_2}$

$y = \dfrac{m_1 y_2 + m_2 y_1}{m_1 + m_2}$

$\Rightarrow$ यदि $R(x, y)$, दोनों बिन्दुओं P तथा Q का मध्य बिन्दु हो तो निर्देशांक $x = \dfrac{x_1 + x_2}{2}$ व निर्देशांक $y = \dfrac{y_1 + y_2}{2}$

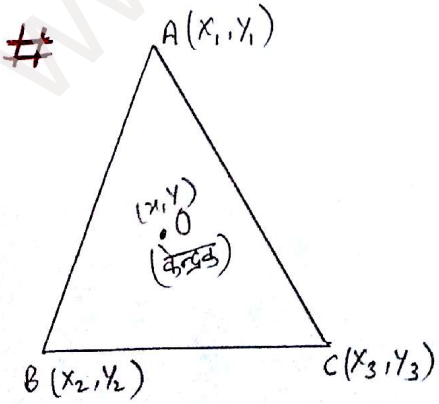
Ex :- 

हो तो बिन्दु R के निर्देशांक = ?

Solution :- $x = \left(\dfrac{2 \times 7 + 1 \times 1}{2+1}\right) = 5$

$y = \left(\dfrac{2 \times 8 + 1 \times 2}{2+1}\right) = 6$

अतः R के निर्देशांक = R(5, 6) होंगे।



यदि $A(x_1, y_1)$, $B(x_2, y_2)$ व $C(x_3, y_3)$ बिन्दु किसी त्रिभुज के तीनो शीर्ष हो तो -

Δ के केन्द्रक के निर्देशांक $\rightarrow$

$x = \dfrac{x_1 + x_2 + x_3}{3}$

$y = \dfrac{y_1 + y_2 + y_3}{3}$ होंगे।

2.@xxx

www.eReadersForum.Net

Scanned by CamScanner

ΔABC का क्षेत्रफल $= \frac{1}{2}\left|\left[x_1(y_2-y_3)+x_2(y_3-y_1)+x_3(y_1-y_2)\right]\right|$ ← mode

$\Rightarrow$ यदि ΔABC का क्षेत्रफल $= 0$ हो तो तीनों बिन्दु संरेख होंगे।

सरल रेखा :-

सरल रेखा का समीकरण $\boxed{ax+by+c=0}$

→ सरल रेखा $x=0$, Y-अक्ष को दर्शाती है।

→ सरल रेखा $y=0$, X-अक्ष को दर्शाती है।

$\Rightarrow$ स्थिति -① जब $b=0$ हो तो

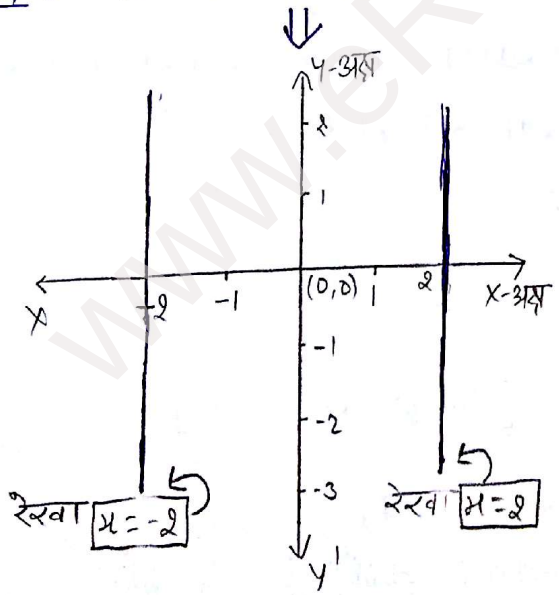
$ax = -c$

$x = -\frac{c}{a}$

या $\boxed{x = c}$

यह सरल रेखा →
X-अक्ष के लम्बवत
व Y-अक्ष के समान्तर होगी।

Ex:- $x=2$ या $x=-2$ रेखा



$\Rightarrow$ स्थिति -② जब $a=0$ हो तो

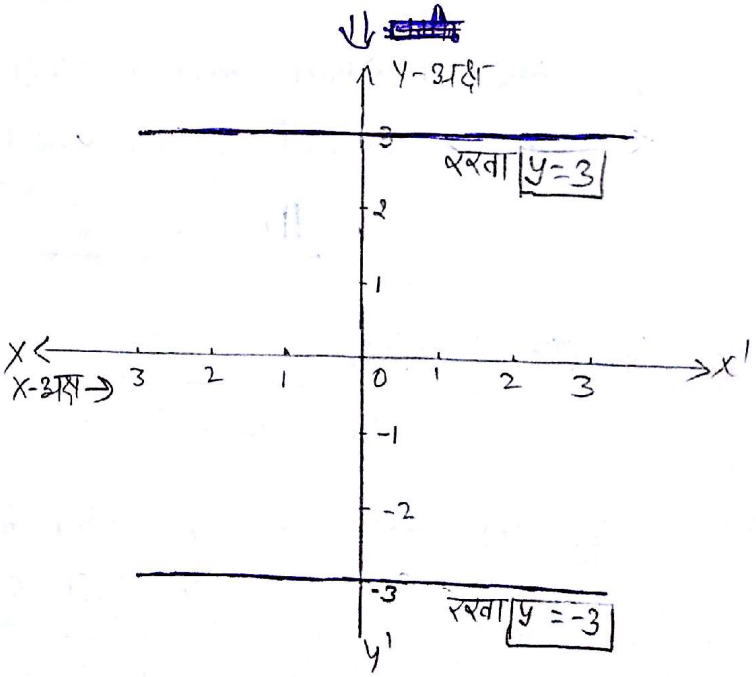
$by = -c$

$y = -\frac{c}{b}$

या ~~$y = c$~~ $\boxed{y = c}$

यह सरल रेखा →
X-अक्ष के समान्तर व
Y-अक्ष के लम्बवत होगी।

Ex:- $y=3$ or $y=-3$ रेखा



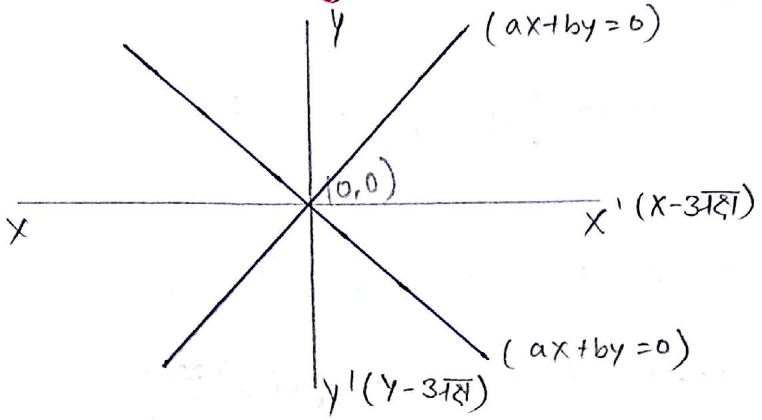
www.eReadersForum.Net

Scanned by CamScanner

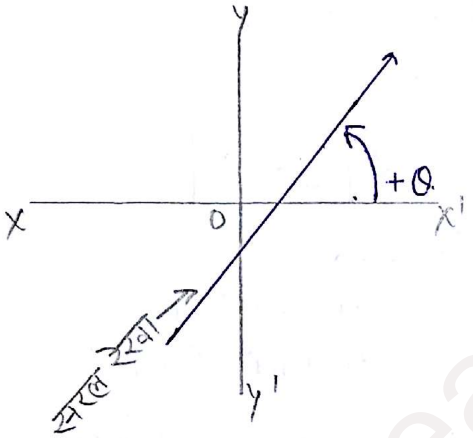
स्थिति -③ - जब $c = 0$ होतो →

$$ax + by = 0 \Rightarrow \boxed{ax = by} \text{ or } \boxed{x = y}$$

→ यह सरल रेखा मूल बिन्दु से होकर गुजरेगी ।



⇒ सरल रेखा की प्रवणता / ढाल / slope :-



Angle θ° →

Anti clock wise (वामावर्त) दिशा में → +ve

Clock wise (दक्षिणावर्त) दिशा में → −ve होता है ।

⇒ कोई भी सरल रेखा x-अक्ष के साथ वामावर्त दिशा में (+ve angle) कोण θ° बनाती है तो सरल रेखा की ढाल →

$$\boxed{m = \tan\theta}$$ होगी ।

स्थिति -(1) जब $\theta^\circ = 0^\circ$ हो,

तब slope / ढाल = 0 $[\tan\theta^\circ = \tan 0^\circ = 0]$

⇒ यह सरल रेखा x- अक्ष के समान्तर व y- अक्ष के लम्बवत होगी ।

4. @RR

www.eReadersForum.Net

Scanned by CamScanner

स्थिति-②:- जब $\theta = 90^\circ$ हो,

तब slope / ढाल $= \infty$ (अनन्त) $[\because \tan 90^\circ = \infty]$

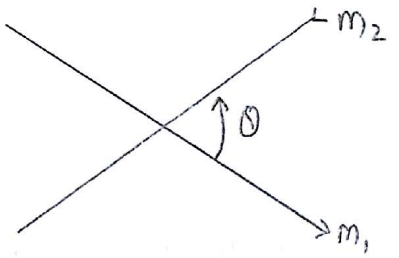
→ यह सरल रेखा x-अक्ष के लम्बवत व
y- अक्ष के समान्तर होगी।

स्थिति ③:- जब $\theta = 45^\circ$ हो,

तब slope / ढाल $= 1$ होगी $[\because \tan 45^\circ = 1]$

→ यह प्रवणता की आदर्श स्थिति है।

जब m_1 ढाल वाली सरल रेखा, m_2 ढाल वाली रेखा को एक कोण (angle) θ पर प्रतिच्छेद करेंगे →



$$\tan\theta = \frac{m_1 - m_2}{1 + m_1 m_2}$$

→ स्थिति -①: जब $\theta = 0^\circ$ / दोनों रेखायें समान्तर हो तो -

$$\tan\theta = 0^\circ = \frac{m_1 - m_2}{1 + m_1 m_2}$$

$$\Rightarrow \boxed{m_1 = m_2}$$

दोनों रेखाओं की प्रवणतायें समान होगी।

→ स्थिति -②: जब $\theta = 90^\circ$ / दोनों रेखाये लम्बवत हो तो -

$$\cot\theta = \frac{1 + m_1 m_2}{m_1 - m_2} \Rightarrow \boxed{1 + m_1 m_2 = 0}$$

$$\boxed{m_1 m_2 = -1} \text{ or } \boxed{m_1 = -\frac{1}{m_2}} \text{ or } \boxed{m_2 = -\frac{1}{m_1}}$$

Scanned by CamScanner

m ढाल/slope वाली सरल रेखा का समीकरण जो बिन्दु (x_1, y_1) से गुजरती है -

$$\boxed{(y-y_1) = m(x-x_1)}$$

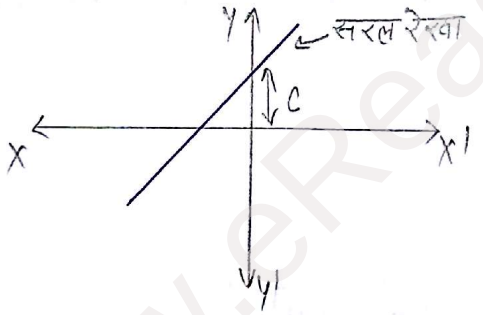
दो बिन्दुओं $P(x_1, y_1)$ तथा $Q(x_2, y_2)$ से गुजरने वाली सरल रेखा का समीकरण →



$$\boxed{(y-y_1) = \left[\frac{y_2-y_1}{x_2-x_1}\right](x-x_1)}$$

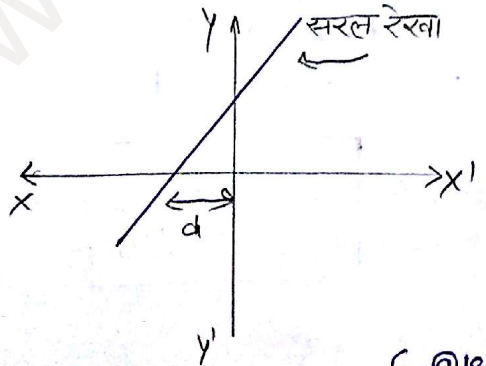
यहाँ ढाल $\boxed{m = \frac{y_2-y_1}{x_2-x_1}}$ है।

उस सरल रेखा का समीकरण जो y-अक्ष पर c इकाई का अंत: खण्ड काटती है व जिसकी प्रवणता m हो तो →



$$\boxed{y = mx + c}$$

उस सरल रेखा का समीकरण जो x-अक्ष पर d-इकाई का अंत: खण्ड काटती है व जिस की प्रवणता m है तो समी.-



$$y = m(x-d)$$

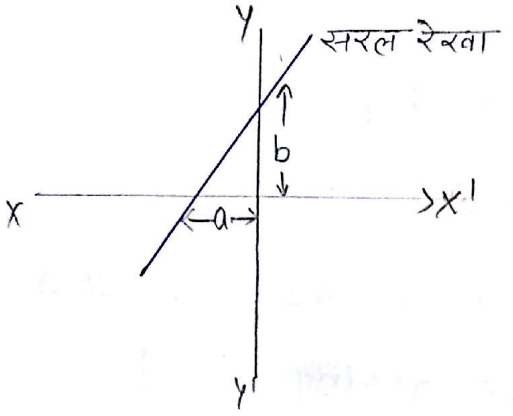
$$\boxed{y = mx - md}$$

6.@ख्ख

www.eReadersForum.Net

Scanned by CamScanner

जब सरल रेखा X-अक्ष पर 'a' तथा Y-अक्ष पर 'b' इकाई का अन्तःखण्ड काटती हो तो उस रेखा का समीकरण –



$$\frac{x}{a} + \frac{y}{b} = 1$$

यदि किसी रेखा पर मूल बिन्दु से डाले गये लम्ब की लम्बाई 'P' हो तथा यह लम्ब X-अक्ष के साथ θ-कोण बनाये तो उस रेखा का समीकरण :-

$$x\cos\theta + y\sin\theta = P$$

जब दो रेखाओं की समी.

$a_1x + b_1y + c_1 = 0$

$a_2x + b_2y + c_2 = 0$ दी गई हो –

⇒ स्थिति-(1) → जब $\frac{a_1}{a_2} = \frac{b_1}{b_2} = \frac{c_1}{c_2}$ हो तो रेखायें –

⇒ अतिव्यापी / Overlapping / आच्छादी होंगी।

व हल – अनंत / असीम हल

व प्रतिच्छेद बिन्दु – अनंत / Infinite होंगे।

⇒ स्थिति-(2) → जब $\frac{a_1}{a_2} = \frac{b_1}{b_2} \neq \frac{c_1}{c_2}$ हो तो रेखाये –

⇒ समान्तर / अप्रतिच्छेदी रेखायें होगी।

→ कोई प्रतिच्छेद बिंदु नहीं व कोई हल नहीं होगा।

7.@ISS

www.eReadersForum.Net

Scanned by CamScanner

⇒ स्थिति - ③ जब $\boxed{\frac{a_1}{a_2} \neq \frac{b_1}{b_2}}$ हो तो रेखायें -

→ परस्पर प्रतिच्छेदी / असमान्तर होगी,
व हल / solution – अद्वितीय / निश्चित / Unique होंगे।

Ex:- रेखायें $3x+4y+5=0$ व $9x+12y+15=0$ होंगी →
Soln:- → परस्पर अतिव्यापी / overlapping होंगी।

यदि $a_1x+b_1y+c_1=0$ व
$a_2x+b_2y+c_2=0$ रेखाओं की समी. हो तो -

→ परस्पर समान्तर होगी यदि $\boxed{\frac{a_1}{a_2}=\frac{b_1}{b_2}}$ हो।

→ परस्पर लम्बवत होंगी यदि $\boxed{a_1a_2=-b_1b_2}$
या
$\boxed{a_1a_2+b_1b_2=0}$ हो

रेखा $ax+by+c=0$ के समान्तर रेखा का समीकरण जो बिन्दु (x_1,y_1) से गुजरती है -

$$\boxed{ax+by+k=0}$$

Ex:- रेखा $3x+4y+5=0$ के समान्तर रेखा का समी. क्या होगा, जो बिन्दु $(1,2)$ से गुजरती है ?

Soln:- समान्तर रेखा का समी. ⇒ $3x+4y+k=0$ —①
यह $(1,2)$ से गुजरती है अतः
$3\times1+4\times2+k=0$
$k=-11$ —②
अतः समी. ① व ② से समान्तर रेखा ⇒ $3x+4y-11=0$ होगी।

ans

8.@ww

www.ebreaderform.Net

Scanned by CamScanner

रेखा $ax+by+c=0$ के लम्बवत रेखा का समीकरण जो (x_1, y_1) से गुजरती है –

$$\boxed{bx-ay+k=0}$$

Ex:- रेखा $3x+4y+5=0$ के लम्बवत रेखा का समी. ज्ञात करो, जो $(1,2)$ से गुजरती है।

Sol^{n}:- लम्बवत रेखा का समी.$\Rightarrow 4x-3y+k=0$ —(I)

यह $(1,2)$ से गुजरती है अतः-

$$4\times1-3\times2+k=0$$

$$\boxed{k=2} \quad —(II)$$

अतः समी. (I) व (II) से समी.$\Rightarrow 4x-3y+2=0$ होगा। ans

रेखा $ax+by+c=0$ की (x_1, y_1) से न्यूनतम/लम्बवत दूरी –

$$\boxed{d=\left|\frac{ax_1+by_1+c}{\sqrt{a^2+b^2}}\right|} \rightarrow \text{mode}$$

$ax+by+c_1=0$ व $ax+by+c_2=0$ दोनो समान्तर रेखाओं के बीच की दूरी

$$\boxed{d=\left|\frac{c_1-c_2}{\sqrt{a^2+b^2}}\right|} \rightarrow \text{mode}$$


g.@ms

www.eReadersForum.Net

Scanned by CamScanner

###

सरल रेखा



दो बिन्दुओं $P(x_1, y_1)$ व $Q(x_2, y_2)$ से गुजरने वाली सरल रेखा –

X - अक्ष पर विभाजित होगी → $\boxed{-\frac{y_1}{y_2}}$ अनुपात में

y - अक्ष पर विभाजित होगी → $\boxed{-\frac{x_1}{x_2}}$ अनुपात में ।

Ex :- P(3,4), व Q(-5,8) से गुजरने वाली रेखा

X - अक्ष पर → $-\left(\frac{-3}{5}\right) = \frac{3}{5} \Rightarrow 3:5$ व

y - अक्ष पर → $-\left(\frac{4}{8}\right) = -\frac{1}{2}$ अनुपात में विभाजित होगी।

Note :- जब अनुपात -ve हो तो वह उस अक्ष (x या y-अक्ष) को विभाजित नहीं करेगा।

आपके उज्ज्वल भविष्य की शुभकामनाओं सहित –

→ @RAS

→ अनिल कुमार कुमावत

10. @RAS

www.eReadersForum.Net

Scanned by CamScanner